ОЛИМПИАДА «СПЕКТРиК-25»
ЛИПЕЦКОГО ГОСУДАРСТВЕННОГО ПЕДАГОГИЧЕСКОГО УНИВЕРСИТЕТА ИМЕНИ П.П. СЕМЕНОВА-ТЯН-ШАНСКОГО

ЗАДАНИЯ ОТБОРОЧНОГО ТУРА ПО ТЕХНОЛОГИИ

Задание 1. Назовите в каждом приведенном примере техническое устройство или его деталь, которое было изобретено, благодаря данному живому организму.

Максимальный балл за задание – 2.

№	Живой организм	Устройство (деталь)
1.		
2.		
3.		

Задание 2. Напишите названия культур, урожай которых представлен на рисунках.

Максимальный балл за задание – 2.

№	Культура	Название культуры
1.		
2.		
3.		

Задание 3. Назовите тип текстильных волокон - *натуральные, искусственные или синтетические*, получаемых из данного вида сырья.

Максимальный балл за задание – 2.

№	Сырье	Тип волокон
1.		
2.		
3.	 	

Задание 4. Механические передачи. Напишите названия представленных в таблице видов механических передач.

Максимальный балл за задание – 2.

№	Виды механических передач	Название
1.	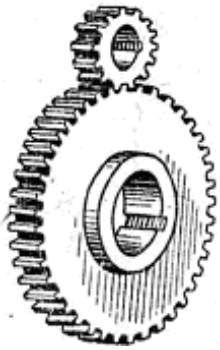	
2.		
3.		

Задание 5. Напишите название чертежных линий.
Максимальный балл за задание – 2.

№	Линия (изображение)	Название
1.		
2.		
3.		